MOBiDES

MATEMATİK 3 (Ünite 2)
Sayılar

Basamak tablosunda belirtilen sayıyı ve okunuşu yazınız.

Yüzlük	Onluk	Birlik	Sayı	Okunuş
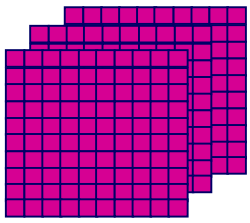				

Abaküste yer alan sayıları kutucuklara yazınız.

Y: Yüzler basamağı
O: Onlar basamağı
B: Birler basamağı

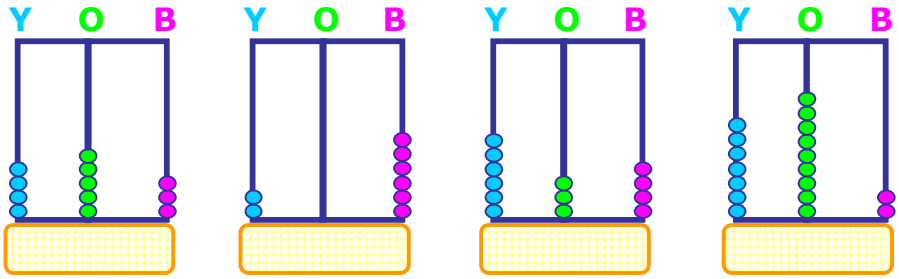

Aşağıdaki boşlukları doldurunuz.

Üç yüz kırk sekiz	:	.....
Altı yüz üç	:	.....
Beş yüz	:	.....
Dokuz yüz altı	:	.....

546	:	.....
153	:	.....
927	:	.....
309	:	.....

AkıllıSınıf EvdeOkul OnlineOkul SınavOptik